StudentBounty.com

ID-DIRETTORAT GĦAL KWALITÀ U STANDARDS FL-EDUKAZZJONI
Id-Dipartiment tal-Kurrikulu u l-*eLearning*
It-Taqsima tal-Assessjar Edukattiv

L-Eżamijiet Annwali għall-Iskejjel Primarji 2013

Ir-Raba' Sena	**L-ISTUDJI SOĊJALI**	**Il-Ħin: Siegħa u kwart**

L-Isem: ______________________________ **Il-Klassi:** ____________

IT-TOTAL TAL-MARKI

AQRA SEWWA DAN LI ĠEJ:

- Imla ismek u l-klassi.
- Qabel tikteb it-tweġiba, ara li tkun fhimt sewwa l-mistoqsija.
- Jekk ma tkunx taf tagħti xi tweġiba, ħalliha vojta u kompli l-oħrajn, imbagħad erġa' ippruvaha fl-aħħar.
- Jekk tieħu żball, ingassah pulit u erġa' ikteb.
- Meta tlesti, erġa' ara l-karta kollha mill-bidu biex tirranġa xi żbalji li jista' jkollok u timla dak li ħallejt barra.

www.StudentBounty.com
Homework Help & Pastpapers

StudentBounty.com

1. Wieġeb bl-għajnuna tal-istampi.
(Kull waħda tista' tintuża iktar minn darba)

mowbajl


kotba

televixin

internet


ittra

radju

gazzetti

1. Kont fil-kampanja u rajt tifel iweġġa' gravi bir-rota. Liema mezz ta' komunikazzjoni tista' tuża biex l-ambulanza tasal malajr? ______________________ (1)
2. Semmi żewġ mezzi ta' komunikazzjoni li bihom tista' twassal messaġġ lill-kuġin li qiegħed l-Amerika:

   (a) ______________________ (b) ______________________ (2)
3. Għada l-Ħadd biħsiebna mmorru nimxu fil-kampanja. Semmi żewġ mezzi ta' komunikazzjoni li bihom nista' nkun naf kif se jkun it-temp:

   (a) ______________________ (b) ______________________ (2)
4. Semmi żewġ mezzi ta' komunikazjoni li jistgħu jibqgħu jintużaw anke meta jinqata' d-dawl:

   (a) ______________________ (b) ______________________ (2)
5. L-għalliema tatna proġett biex infittxu informazzjoni dwar l-Italja. Semmi żewġ mezzi ta' komunikazzjoni li bihom nista' nfittex l-informazzjoni dwar l-Italja:

   (a) ______________________ (1)

   (b) ______________________ (1)
6. Semmi mod wieħed kif tista' tagħmel użu ħażin minn xi wieħed minn dawn il-mezzi ta' komunikazzjoni:

   ____

   ____ (2)

(11-il marka)

www.StudentBounty.com
Homework Help & Pastpapers

2. Agħżel it-tweġiba t-tajba billi taqta' sing taħtha.

1. Fil-(Ġimgħa l-Kbira, Milied, festa tar-raħal, Karnival) bosta nies jilbsu ta' maskar
2. Fil-Karnival, ġewwa l-Belt Valletta jkun hemm bosta (statwi, dgħajjes, purċissjonijiet, karrijiet).
3. Fil-(Ġimgħa l-Kbira, Milied, festa tar-raħal, Karnival) joħorġu bosta purċissjonijiet bil-vari ta' Kristu, fosthom dawk ta' Kristu msawwat u ta' Kristu nkurunat bix-xewk.
4. Eżatt qabel (il-Ġimgħa l-Kbira, il-festa tar-raħal, il-Karnival, Santa Marija) jkollna r-Randan, żmien meta l-Insara huma mħeġġa jagħmlu xi sagrifiċċji.
5. Il-Konti Ruġġieru ġie Malta minn (Sqallija, Għawdex, Franza, Spanja).
6. Hawn Malta l-Konti Ruġġieru ġab miegħu suldati (Spanjoli, Normanni, Tuneżini, Russi).
7. Hawn Malta, il-Konti Ruġġieru u s-suldati tiegħu ġġieldu kontra (l-Ingliżi, l-Franċiżi, l-Ispanjoli, l-Għarab) u rebħulhom.
8. Wara li rebaħ lil Malta, il-Konti Ruġġieru rebaħ ukoll (lill-Eġittu, lit-Tuneżija, lill-Amerika, lil Għawdex).

(marka 1 x 8 = 8 marki)

3. Ikteb drawwa marbuta ma' kull festa msemmija.

Ara l-eżempju.

	FESTA	DRAWWA
Eż:	Santa Marija	*F'Santa Marija bosta nies iħobbu jmorru jżuru s-Seba' Santa Marijiet.*

1. **L-Għid il-Kbir** ____

____

2. **Il-festa tar-raħal** ____

____

3. **Il-Milied** ____

____

4. **L-Imnarja** ____

____

(2 marki x 4 = 8 marki)

StudentBounty.com

www.StudentBounty.com
Homework Help & Pastpapers

StudentBounty.com

4. NIES LI JGĦINUNA U MEXXEJJA FIL-KOMUNITÀ TAGĦNA.

Qabbel kolonna A ma' kolonna B.
L-ewwel waħda hija mogħtija bħala eżempju.

1.	**jieħu ħsieb l-affarijiet spiritwali tal-Insara**
2.	imexxi l-laqgħat tal-kunsill lokali
3.	jara li l-liġijiet ikunu obduti minn kulħadd
4.	joħroġ bid-dgħajsa biex jistad għall-ħut
5.	jiknes it-toroq u l-ġonna
6.	ħu ommi
7.	jagħtina l-mediċina biex infiqu malajr meta nimirdu
8.	imexxi l-iskola tal-belt fejn noqgħod jien
9.	jieħu d-deċiżjonijiet l-iktar importanti fit-tmexxija ta' pajjiżna
10.	jirrappreżenta lill-poplu fil-parlament
11.	missier ommi

	is-sajjied
	in-nannu
	tal-indafa pubblika
1	**is-saċerdot**
	il-pulizija
	il-kap tal-iskola
	iz-ziju
	it-tabib
	is-sindku
	Il-Prim Ministru
	membru parlamentari

(marka 1 x 10 = 10 marki)

5. Ikteb għalfejn jintużaw dawn li ġejjin.

1	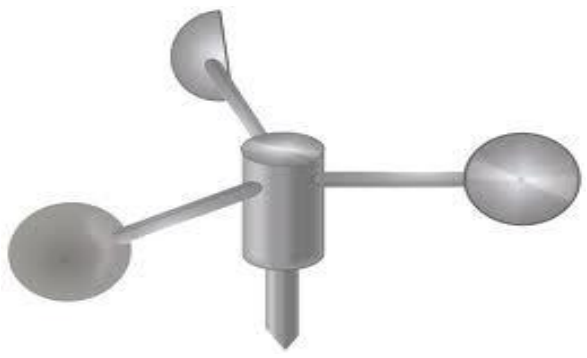	Dan huwa **ANEMOMETRU**. L-<u>anemometru</u> nużawh biex ______ ______
2	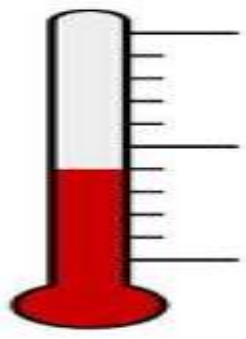	Dan huwa **TERMOMETRU**. It-<u>termometru</u> nużawh biex ______ ______
3	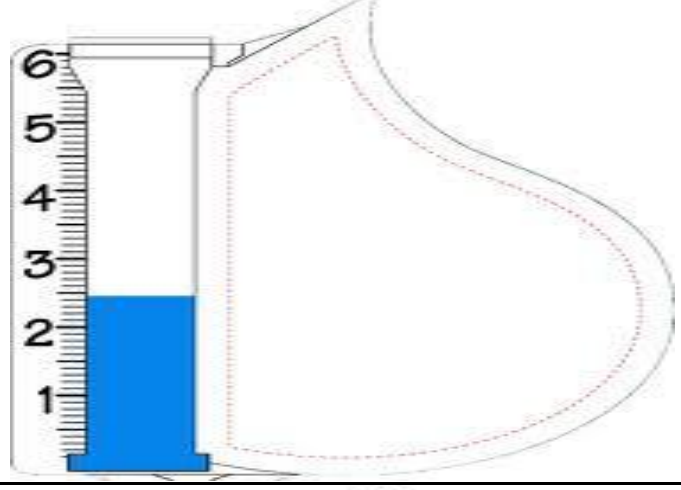	Dan huwa ***RAIN-GAUGE***. Ir-*<u>rain-gauge</u>* nużawh biex ______ ______
4	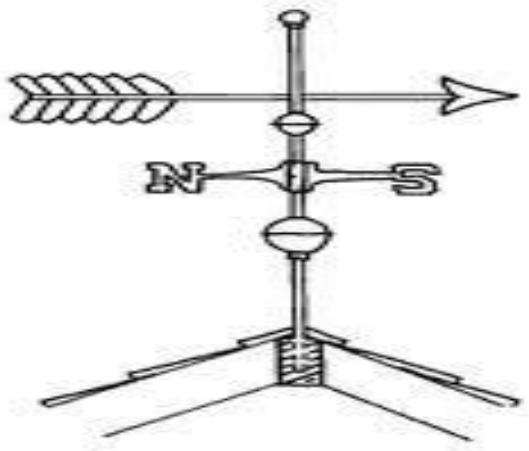	Dan huwa **PINNUR**. Il-<u>pinnur</u> jurina ______ ______

(2 marki x 4 = 8 marki)

www.StudentBounty.com
Homework Help & Pastpapers

StudentBounty.com

6. Imla l-isem tal-pajjiż skont in-numru li tara fil-mappa.

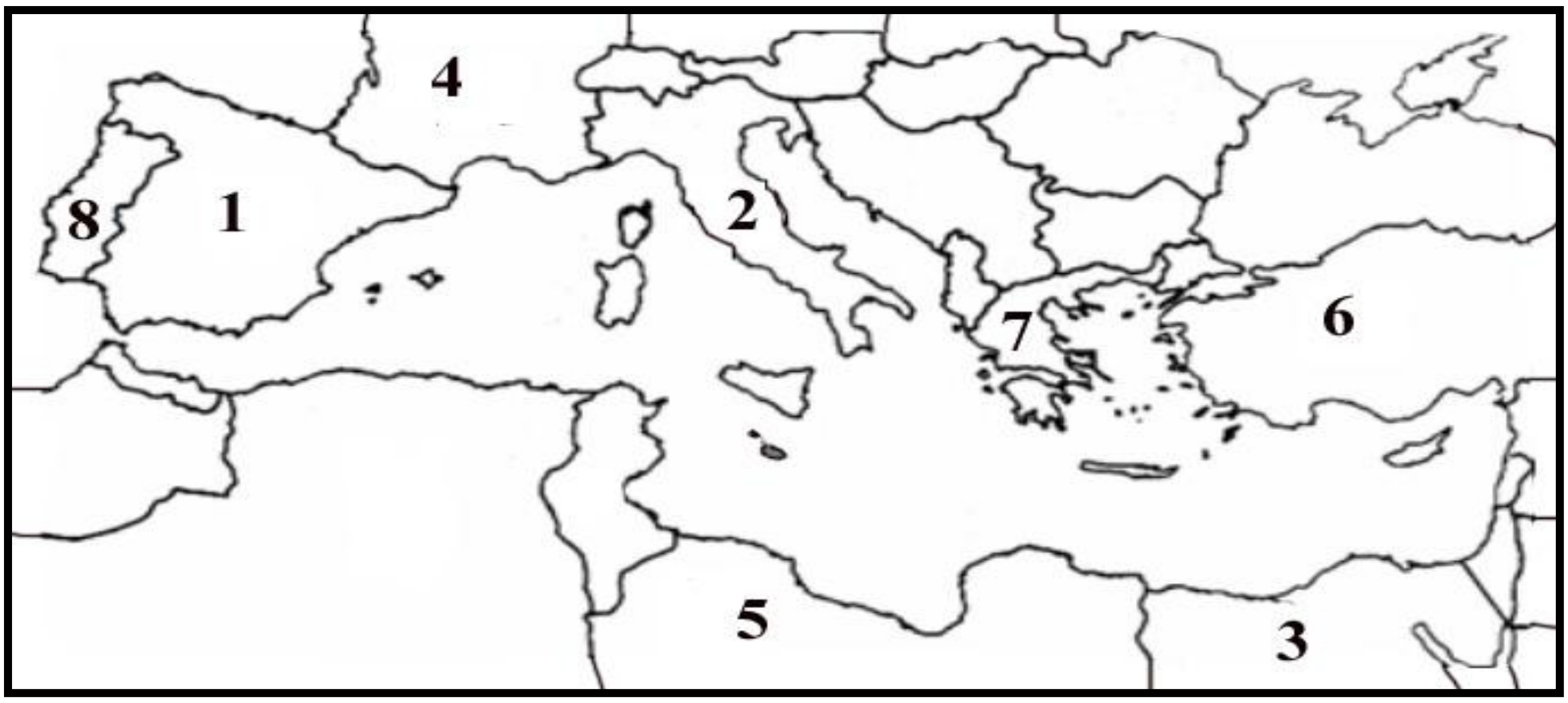

Numru	PAJJIŻ	Numru	PAJJIŻ
1		5	
2		6	
3		7	
4		8	

(marka 1 x 8 = 8 marki)

Mill-pajjiżi li hemm fil-mappa tal-Mediterran, agħżel erbgħa u ikteb il-bliet kapitali tagħhom. Ħares lejn l-eżempju: **Eż**: l-Italja – Ruma

(a) ______________________ (b) ______________________

(c) ______________________ (d) ______________________

(marka 1 x 4 = 4 marki)

7. Ikteb sentenzi skont kif mitlub/a.



(1) **IL-FORESTA** – għid kif il-foresti jistgħu jkunu ta' ġid għall-bniedem:

____

____ (3)



(2) **ID-DEŻERT SĦUN** – semmi diffikultà li l-bniedem jiltaqa' magħha biex jgħix f'ambjent ta' deżert sħun:

____

____ (3)

(3) **IL-MERGĦA** – ikteb dwar l-ambjent li wieħed jista' jsib f'mergħa:

____

____ (3)

(3 marki x 3 = 9 marki)

www.StudentBounty.com
Homework Help & Pastpapers

StudentBounty.com

8. Imla l-vojt skont l-istampi.

It-Tnejn	It-Tlieta	l-Erbgħa	Il-Ħamis	Il-G
				
12^0 C	25^0 C	27^0 C	20^0 C	18^0 C

1. Ir- ______________________ tat-temp joħroġ mill-Uffiċċju Meterjoloġiku ta' Ħal Luqa.
2. Nhar l-Erbgħa t-temp kien ____________________________________ .
3. L-iktar temp sħun kien dak ta' nhar ____________________________ .
4. L-iktar temp kiesaħ għamel nhar _______________________________ .
5. L-Erbgħa għamlet ______________________________ sħana mit-Tlieta.

(marka 1 x 5 = 5 marki)

9. Imla l-vojt bid-DIREZZJONIJIET skont il-mappa.

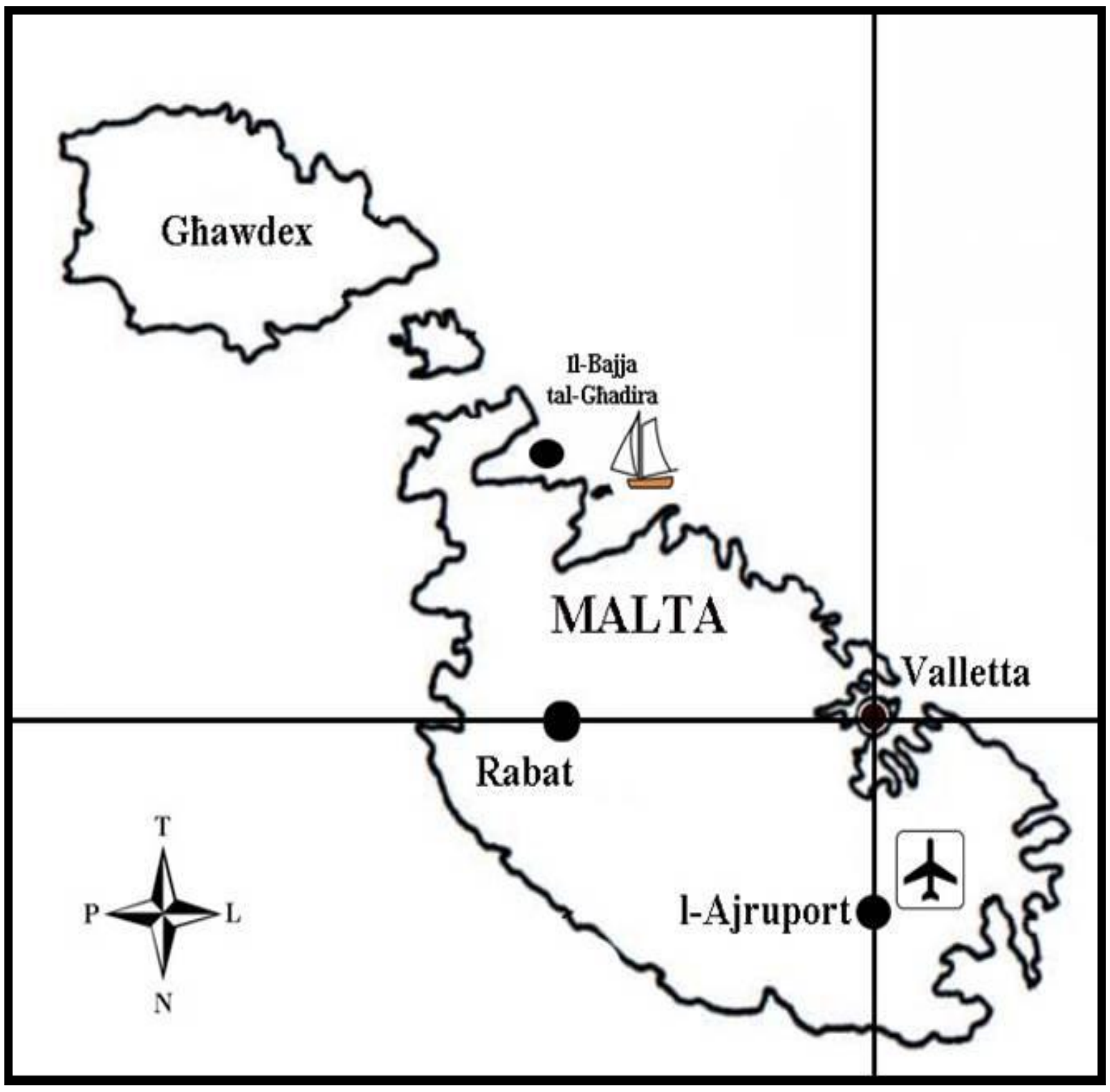

1. L-Ajruport qiegħed lejn (in-Nofsinhar, il-Grigal, ix-Xlokk, il-Punent) tal-Belt Valletta.
2. Il-Belt Valletta qiegħda (fil-Lvant, fil-Punent, fit-Tramuntana, fil-Majjistral) tal-Ajruport.
3. Biex mir-Rabat, għasfur tal-bejt itir lejn il-Bajja tal-Għadira, irid itir lejn (it-Tramuntana, ix-Xlokk, in-Nofsinhar, il-Lvant).
4. Għawdex jinsab lejn (ix-Xlokk, in-Nofsinhar, il-Majjistral, il-Lvant) tal-Belt Valletta.
5. Biex għasfur itir mir-Rabat lejn l-Ajruport, irid itir fid-direzzjoni (tal-Grigal, tax-Xlokk, tal-Majjistral, tat-Tramuntana).

(marka 1 x 5 = 5 marki)

www.StudentBounty.com
Homework Help & Pastpapers

StudentBounty.com

10. Nhar it-Tnejn l-għalliem ta xi pariri lit-tfal tal-klassi tiegħu dwar l-imġiba fit-toroq tagħna.

Aqta' sing taħt il-<u>ħames</u> pariri li ta l-għalliem.

- Aqsam it-triq kif ġie ġie; il-karozzi ma jistgħux iweġġgħuk.
- Tarmux karti fl-art; żommu t-toroq nodfa.
- Is-*seat belt* għandu jilbsu min ikun qed isuq biss.
- Meta naqsmu t-triq, nużaw iż-*zebra crossing*.
- Suq ir-rota fuq il-bankina.
- Il-kulur aħmar tat-*traffic lights* ifisser li tista' taqsam it-triq.
- Meta nimxu fit-triq nużaw il-bankina.
- Meta ssuq ir-rota m'hemmx għalfejn tilbes *crash helmet*.
- Meta noħorġu nduru bil-kelb inżommuh marbut ma' ċinga.
- Hawn Malta nsuqu fuq in-naħa tax-xellug tat-triq.

(marka 1 x 5 = 5 marki)

11. Wieġeb billi tuża l-mappa tal-Gżejjer Maltin.

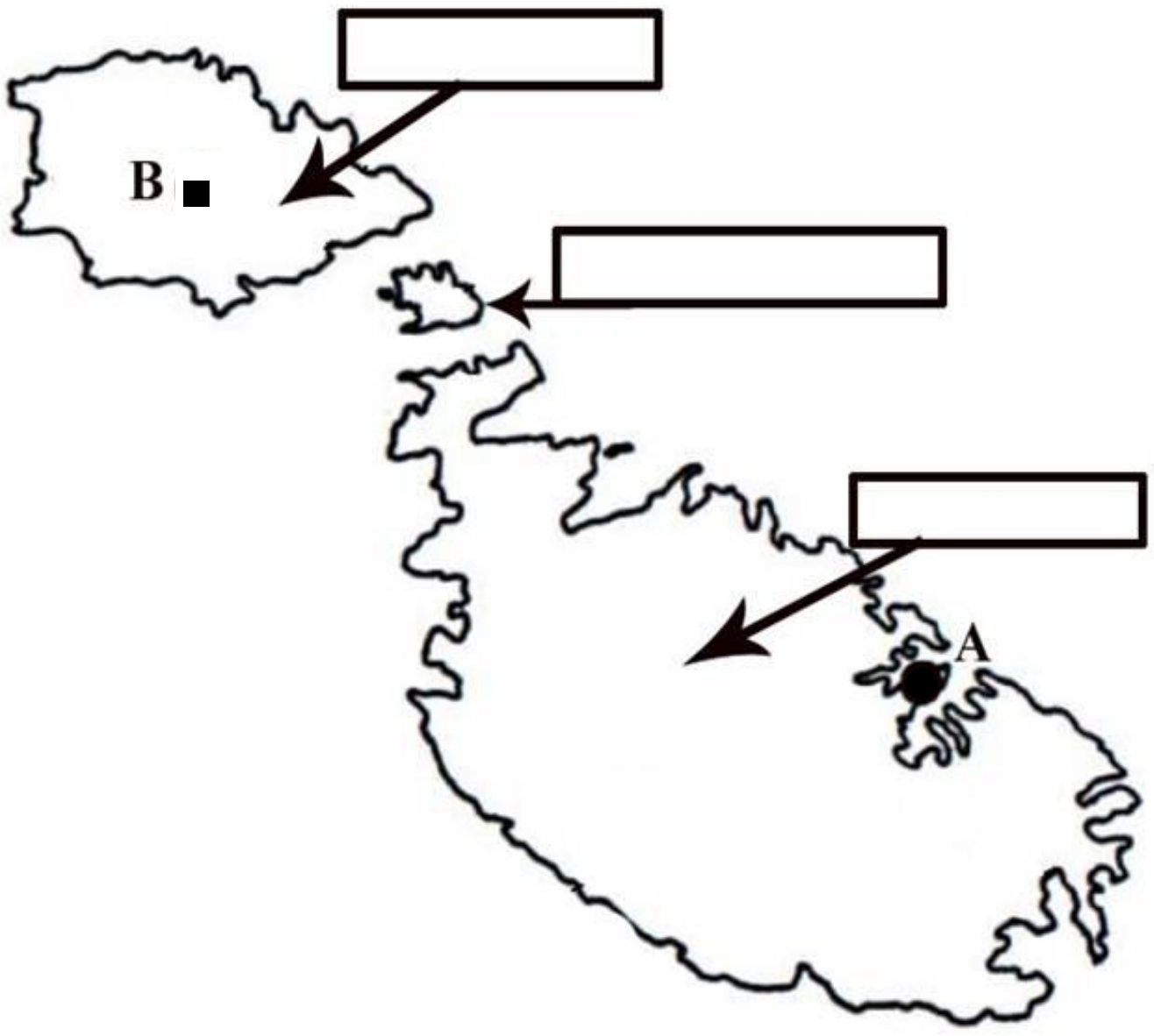

(1) Meta ngħidu l-**GŻEJJER MALTIN** aħna nifhmu t-tliet gżejjer ta' MALTA, GĦAWDEX u KEMMUNA. Fuq il-mappa ikteb l-isem ta' kull gżira fil-kaxxi. (3)

(2) X'jissejjaħ il-baħar li jdawwar il-Gżejjer Maltin?

______________________________ (2)

(3) B'liema ittra hija mmarkata l-belt ta' Victoria?

______________________________ (1)

(4) B'liema ittra hija mmarkata l-belt Valletta? ______________________________ (1)

(5) Turista Ġermaniż jinsab fuq żjara fil-belt Valletta. Jixtieq imur il-belt ta' Victoria Għawdex. Semmi żewġ mezzi ta' trasport li jrid juża.

(a) mezz ta' trasport 1: ______________________________ (1)

(b) mezz ta' trasport 2: ______________________________ (1)

(9 marki)

www.StudentBounty.com
Homework Help & Pastpapers

StudentBounty.com

12. Kompli s-sentenzi b'dawn il-kliem.

kliem	Maltija	inħobbu	Palazz	Franc
ħajtu	Taljana	jeħilsu	poeta	mużika

1. Dun Karm Psaila huwa l-_______________ nazzjonali Malti.
2. Dun Karm kiteb il- _______________ tal-Innu Malti.
3. Il- _________________________ tal-Innu Malti nkitbet minn Mro Robert Samut.
4. Dun Karm, bl-eżempju tiegħu, iħeġġiġna biex ___________________ l-lingwa tagħna.
5. Għall-bidu, Dun Karm kien jikteb il-poeżiji tiegħu bil-lingwa ___________________ imma mbagħad kiteb poeżiji mill-isbaħ bil-lingwa ____________________________ .
6. Dun Mikiel Xerri kien eroj li ta ____________________ għal pajjiżu.
7. Dun Mikiel Xerri u sħabu riedu ____________________ lil Malta minn taħt idejn il- ________________________ .
8. Dun Mikiel Xerri u sħabu nqabdu u għalhekk ġew maqtula fil-Belt Valletta quddiem il- ______________________ .

(marka 1 x 10 = 10 marki)

IT-TMIEM TAL-KARTA

www.StudentBounty.com
Homework Help & Pastpapers